الثانوية الإعدادية بنصفار

الأستاذ : جطيط المهدي

الأولى إعدادي

فرض منزلي رقم 3

تمرين 1

1) أحسب ما يلي

$-5\times 2.5 \quad (-5)^2 \quad \frac{5}{-2} \quad (1^2)^5$

2) حدد إشارة الأعداد التالية

$\frac{6}{-2} \quad (-6)^2 \quad \frac{-3}{-2} \quad (-2)^5$

3) لدينا $\frac{-5}{3}=-1.666$

- القيمة المقربة إلى 0.001 بتفريط للعدد $\frac{-5}{3}$ هي ....
- القيمة المقربة إلى 0.001 بإفراط للعدد $\frac{-5}{3}$ هي ....
- تأطير العدد $\frac{-5}{3}$ إلى 0.001 هو

.... < $\frac{-5}{3}$ < ....

تمرين 2

❖ هل يمكن إنشاء المثلث ABC إذا علمت أنه متساوي الساقين في A و أن :

$\widehat{A}=80°$ و $\widehat{B}=40°$ و $\widehat{C}=60°$

❖ هل يمكن إنشاء المثلث ABC بحيث :

$AB=8cm$ $BC=4cm$ و $AC=4cm$ و

معللا جوابك

تمرين 3

نعتبر الشكل أسفله بحيث $\widehat{A}=80°$ و $\widehat{C}=50°$

1) حدد قياس الزاوية $\widehat{B}$

2) استنتج طبيعة المثلث ABC معللا جوابك

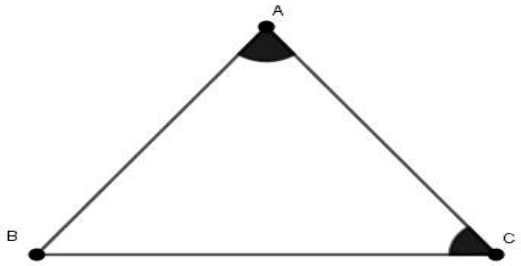

تمرين 4

ABC مثلث متساوي الساقين في A بحيث $AB=4cm$

1) أنشئ الشكل

2) أنشئ O مركز الدائرة المحاطة بالمثلث ABC

MAHDI

الثانوية الإعدادية بنصفار

الأستاذ : جطيط المهدي

الأولى إعدادي

فرض منزلي رقم 3

تمرين 1

1) أحسب ما يلي

$-5\times 2.5 \quad (-5)^2 \quad \frac{5}{-2} \quad (1^2)^5$

2) حدد إشارة الأعداد التالية

$\frac{6}{-2} \quad (-6)^2 \quad \frac{-3}{-2} \quad (-2)^5$

3) لدينا $\frac{-5}{3}=-1.666$

- القيمة المقربة إلى 0.001 بتفريط للعدد $\frac{-5}{3}$ هي ....
- القيمة المقربة إلى 0.001 بإفراط للعدد $\frac{-5}{3}$ هي ....
- تأطير العدد $\frac{-5}{3}$ إلى 0.001 هو

.... < $\frac{-5}{3}$ < ....

تمرين 2

❖ هل يمكن إنشاء المثلث ABC إذا علمت أنه متساوي الساقين في A و أن :

$\widehat{A}=80°$ و $\widehat{B}=40°$ و $\widehat{C}=60°$

❖ هل يمكن إنشاء المثلث ABC بحيث :

$AB=8cm$ $BC=4cm$ و $AC=4cm$ و

معللا جوابك

تمرين 3

نعتبر الشكل أسفله بحيث $\widehat{A}=80°$ و $\widehat{C}=50°$

1) حدد قياس الزاوية $\widehat{B}$

2) استنتج طبيعة المثلث ABC معللا جوابك

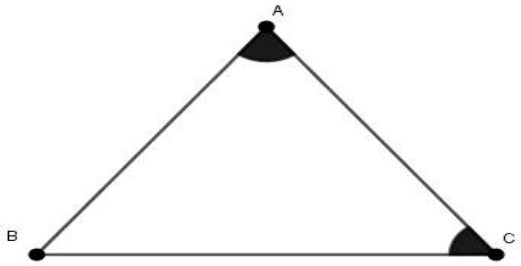

تمرين 4

ABC مثلث متساوي الساقين في A بحيث $AB=4cm$

1) أنشئ الشكل

2) أنشئ O مركز الدائرة المحاطة بالمثلث ABC

MAHDI

ثانوية سيدي معافة الإعدادية	**فرض محروس رقم ❸ الأسدوس الأول**	المادة : الرياضيات ⏲ 50 دقيقة
وجدة	**الأستاذ: توفيق بوكرارة**	المستوى: الأولى ثانوي إعدادي

الإسم: ..... **القسم:** ..... **الرقم:** .....

❀ **التمرين الأول (1,5 نقط)** : أتمم الجمل التالية مستعينا بالشكل جانبه :

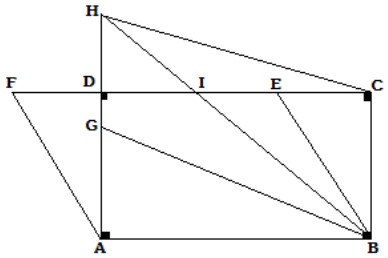

1) $\widehat{IBA}$ و ..... زاويتان متحاديتان ومتتامتان.

2) $\widehat{HID}$ و ..... زاويتان متحاديتان ومتكاملتان.

3) $\widehat{CIB}$ و ..... زاويتان متقابلتان بالرأس.

❀ **التمرين الثاني (5,5 نقط)** : ABC مثلث بحيث: BC=5cm و $\widehat{ABC} = 50°$ و $\widehat{ACB} = 70°$

1) أنشئ الشكل. (1 ن)

2) أنشئ منصفا كل من الزاويتين $\widehat{ABC}$ و $\widehat{ACB}$. (2 ن)

3) ماذا تمثل النقطة H تقاطع المنصفين؟

.....

.....

4) أحسب $\widehat{HBC}$: (0,5 ن)

.....

.....

5) أحسب $\widehat{HCB}$: (0,5 ن)

.....

.....

6) أحسب $\widehat{BHC}$: (1 ن)

.....

.....

❀ **التمرين الثالث (13 نقط)** : 1) أحسب ما يلي:

$A = 3 \times (-2)$	$B = \frac{10}{-5}$	$C = \frac{-12}{-3}$ .....
$D = -3 \times (-5)$	$E = (-10) \times (-8,5) \times 0 \times (-1,5) \times 2018 \times (-2,5)$	
$(-1)^{2018} =$	$(-5)^3 =$	$2 \times (-3)^2 =$ .....

2) حدد إشارة الجداء التالي معللا جوابك:

$F = 0.123 \times (-25) \times (-5) \times (-4) \times (-2)\square$

.....

3) أكتب على شكل القوة a^n :

$[(-7)^3]^4 = \cdots$	$(-2)^5 \times (-2)^6 \times (-2) = \cdots$	$23 \times 23^4 = \cdots$	$12^{15} \times 12^3 = \cdots$ ....

بالتوفيـــق

اعدادية عمر بن الخطاب	فرض محروس رقم 3 الدورة 1	المستوى الأول.
الأولى: ..... الرقم:	الاسم الكامل:	يوم 2018/01/09 ساعة واحدة

تمرين 1: **1)** هل يمكن رسم المثلث ABC بحيث : AB = 7cm و AC = 17cm و BC = 5 cm ؟ علل جوابك

.....

.....

2) أنشئ المثلث EFG حيث: $EF = 5cm$ و

$FG = 4cm$ و $EG = 6cm$.

3) أنشئ واسط الضلع $[EF]$.

4) أنشئ الدائرة **المحيطة** بالمثلث EFG التي مركزها O.

5) أنشئ EH ارتفاع المثلث EFG المار من E.

8

تمرين 2: إملأ الجدول الاتي حيث: ABC مثلث.

الزاوية: $\hat{A}$	$\hat{A}$ =.....	$\hat{A}$=40°	$\hat{A}$=.....	$\hat{A}$=50°	$\hat{A} = 100°$
الزاوية: $\hat{B}$	$\hat{B}$ =.....	$\hat{B}$=50°	$\hat{B}$=45°	$\hat{B}$=.....	$\hat{B} = 37°$
الزاوية: $\hat{C}$	$\hat{C}$ =.....	$\hat{C}$=.....	$\hat{C}$=90°	$\hat{C}$=.....	$\hat{C}$=.....
طبيعة المثلث ABC	ABC مثلث متساوي الاضلاع	ABC	.....ABC	ABC مثلث متساوي الساقين في A	ABC مثلث

5

تمرين 3: (C) دائرة مركزها O و (C') دائرة مركزها O' . الدائرتان (C) و (C') لهما نفس الشعاع و تتقاطعان في النقطتين E و F.

1) أنشئ الشكل

2) بين أن (EF) واسط القطعة $[OO']$.

.....

.....

.....

.....

.....

.....

.....

.....

.....

.....

.....

.....

5

تمرين 3: في الشكل التالي :الزاوية $A\hat{O}B = 180°$ و $B\hat{O}C = 60°$ و $[OI)$ منصف الزاوية $A\hat{O}C$.

أحسب قياس $A\hat{O}I$:.....

.....

.....

.....

.....

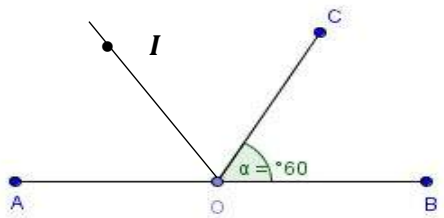

2

اعدادية عمر بن الخطاب	فرض محروس رقم 3 الدورة 1	المستوى الأول.
الأولى: ..... الرقم:	الاسم الكامل:	يوم 2019/01/09 ساعة واحدة

تمرين 1: 1) أنشئ المثلث EFG حيث: $EF = 8cm$ و $FG = 6cm$ و $EG = 7cm$.

2) أنشئ واسط الضلع $[EF]$.

3) أنشئ الدائرة **المحيطة** بالمثلث EFG التي مركزها O.

4 + 2

تمرين 2: أنشئ المثلث MNP حيث: $MN = 7cm$ و $\widehat{M} = 30°$ و $\widehat{N} = 110°$

تمرين 3: 1) اتمم ما يلي:

أ) $AB \leq A \ldots + \ldots B$

ب) $A \ldots \leq BC + AB$

ج) $BC \leq \cdots A + \cdots A$

3

2) هل يمكن رسم المثلث ABC بحيث : $AB = 7cm$ و $AC = 17cm$ و $BC = 5\ cm$؟ علل جوابك

.....

.....

.....

تمرين 4: إملأ الجدول الاتي حيث: ABC مثلث.

الزاوية: $\hat{A}$	$\hat{A} = 60°$	$\hat{A} = 90°$	$\hat{A}$=.....	$\hat{A} = 110°$
الزاوية: $\hat{B}$	$\hat{B} = 60°$	$\hat{B} = 40°$	$\hat{B}$=.....	$\hat{B} = 30°$
الزاوية: $\hat{C}$	$\hat{C} = 60°$	$\hat{C}$=.....	$\hat{C}$=.....	$\hat{C}$=.....
طبيعة المثلث ABC	ABC	ABC	ABC مثلث متساوي الساقين وقائم الزاوية في A .	ABC مثلث

4

تمرين 5: 1) اتمم ما يلي: واسط قطعة هو المستقيم .....

.....

2) المستقيم (Δ) واسط القطعة $[AB]$ و M نقطة خارج القطعة $[AB]$ و تنتمي إلى (Δ).

أ) أنشئ الشكل.

4 + 3

ب) ما هي طبيعة المثلث MAB ؟علل جوابك

.....

.....

.....

.....

تمرين 6: ABC مثلث قائم الزاوية في A .

1) أنشئ النقطة D بحيث تكون النقطة A منتصف القطعة $[DC]$.

2) بين أن المستقيم (AB) واسط القطعة $[DC]$.

.....

.....

.....

.....

.....

.....

.....